Downloaded From : http://sscportal.in/

CGLE- Combined Graduate Level Tier-I, 2018 Examination

Section : **General Intelligence and Reasoning**

Q.1 नीचे दो कथन दिए गए हैं और उसके बाद निष्कर्ष I, II और III दिए गए हैं। कथन को सत्य मानते हुए, चाहे वह सामान्यत: ज्ञात तथ्यों से भिन्न प्रतीत होते हों, आपको यह निर्णय करना है कि दिए गए कथनों से कौन-सा निष्कर्ष तर्कसंगत रूप से निकलता है।

कथन :
कुछ मोबाइल उपकरण हैं।
सभी उपकरण भारी वस्तुएं हैं।

निष्कर्ष :
I. कुछ मोबाइल भारी वस्तुएं हैं।
II कोई भी मोबाइल भारी वस्तु नहीं है।
III कुछ भारी वस्तुएं उपकरण हैं।

Ans
✗ 1. सभी निष्कर्ष निकलते हैं ।
✓ 2. केवल निष्कर्ष I और III निकलता है।
✗ 3. केवल निष्कर्ष III और या तो I या II निष्कर्ष निकलता है।
✗ 4. केवल निष्कर्ष I निकलता है।

Q.2 निम्नलिखित शब्दों को एक तार्किक एवं अर्थपूर्ण क्रम में व्यवस्थित कीजिए।

1. वेतन
2. भर्ती
3. शिक्षा
4. पदोन्नति
5. स्कूल
6. रोजगार

Ans
✗ 1. 5, 3, 4, 1, 2, 6
✓ 2. 5, 3, 2, 6, 1, 4
✗ 3. 5, 3, 2, 6, 4, 1

Downloaded From : http://sscportal.in/ Courtesy : SSC

Downloaded From : http://sscportal.in/

✗ 4. 3, 5, 4, 2, 6, 1

Q.3 निम्नलिखित चार-अक्षर समूहों में से तीन अक्षर-समूह किसी प्रकार से एक समान हैं और एक असमान है। असमान अक्षर-समूह का चयन कीजिए।

Ans
✗ 1. TUWZ
✗ 2. DEGJ
✗ 3. MNPS
✓ 4. PQTX

Q.4 Three of the following four words are alike in a certain way and one is different. Pick the odd word out.

Ans
✗ 1. Courtesy
✗ 2. Indulgence
✓ 3. Hindrance
✗ 4. Benevolence

Q.5 निम्नलिखित समीकरण का मान क्या होगा यदि '÷' का अर्थ 'जोड़' है, '+' का अर्थ 'घटाव' है, '-' का अर्थ 'गुणा' है और '×' का अर्थ 'विभाजन' है?

$54 \times 6 - 7 \div 8 + 2 = ?$

Ans
✗ 1. 57
✗ 2. 61
✗ 3. 63
✓ 4. 69

Q.6 निम्नलिखित चार शब्द युग्म में से तीन शब्द युग्म किसी प्रकार से एकसमान हैं और एक शब्द युग्म असमान है। असमान शब्द युग्म का चयन कीजिए।

Ans
✗ 1. Malaysia (मलेशिया) : Ringgit (रिंगित)
✓ 2. South Korean (साउथ कोरियन) : Rupiya (रुपिया)
✗ 3. Russia (रशिया) : Ruble (रूबल)

Downloaded From : http://sscportal.in/ Courtesy : SSC

Downloaded From : http://sscportal.in/

✗ 4. Bangladesh (बांग्लादेश) : Taka (टाका)

Q.7 नीचे दी गई आकृति में कितने त्रिभुज हैं?

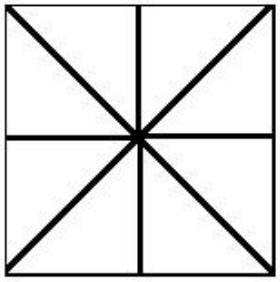

Ans
✗ 1. 12
✗ 2. 14
✗ 3. 18
✓ 4. 16

Q.8 दिए गए विकल्पों में से उस शब्द युग्म का चयन कीजिए जिस के दोनों शब्द आपस में उसी प्रकार संबंधित है जिस प्रकार नीचे लिखे गए शब्द युग्म के शब्द आपस में संबंधित है।

भौं चढ़ाना : नाराजगी

Ans
✓ 1. मुस्कान : परमानंद
✗ 2. शोक : दुख
✗ 3. पागलपन : बीमारी
✗ 4. हँसी : हास्य

Q.9 यदि FLOWER को 14 के रूप में और DISTASTE को 18 के रूप में कूटबद्ध किया जाता है तो BUREAUCRAT को किस रूप में कूटबद्ध किया जाएगा?

Ans
✗ 1. 28
✗ 2. 18
✓ 3. 22
✗ 4. 20

Downloaded From : http://sscportal.in/ Courtesy : SSC

Downloaded From : http://sscportal.in/

Q.10 किसी सांकेतिक भाषा में अगर FRIDGE को GTLHLK के रूप में लिखा जाता है, तो उसी भाषा में KETTLE को कैसे लिखा जाएगा?

Ans
1. GLXWQK
2. LGWXQK
3. XKWQLG
4. WQLGXK

Q.11 उस विकल्प का चयन करें जिसमें दी गई आकृति अंतर्निहित है।

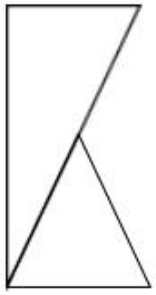

परिक्रमण की अनुमति नहीं हैं

Ans

1. 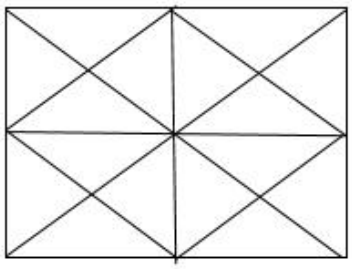

2. 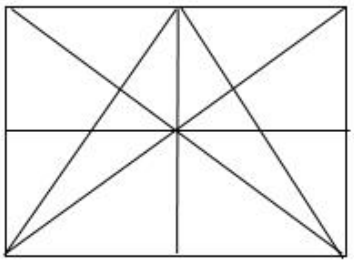

3. 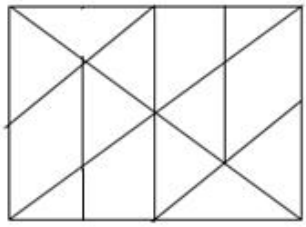

Downloaded From : http://sscportal.in/ Courtesy : SSC

Downloaded From : http://sscportal.in/

✔ 4. 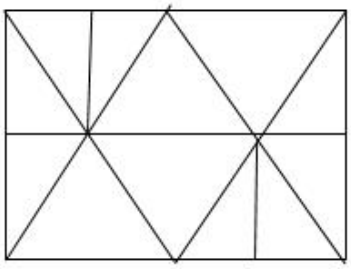

Q.12 एक ही पासे की दो भिन्न स्थितियों को दर्शाया गया है। यदि संख्या 3 निचले फलक पर है तो ऊपरी फलक पर कौन-सी संख्या दिखाई देगी?

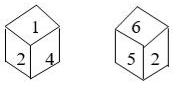

Ans

✘ 1. 6

✘ 2. 1

✔ 3. 2

✘ 4. 4

Q.13 उस विकल्प का चयन कीजिए जो तीसरे अक्षर-समूह से उसी प्रकार संबंधित है जिस प्रकार दूसरा अक्षर-समूह पहले अक्षर समूह से संबंधित है।

DKFM : FIHK :: BLGP : ?

Ans

✘ 1. ZNEN

✘ 2. CKHO

✔ 3. DJIN

✘ 4. DNER

Q.14 दी गई श्रेणियों के बीच सर्वश्रेष्ठ संबंध को दर्शाने वाले वेन आरेख का चयन कीजिए।

स्नातक, साक्षर, कर्मठ

Ans

✘ 1. 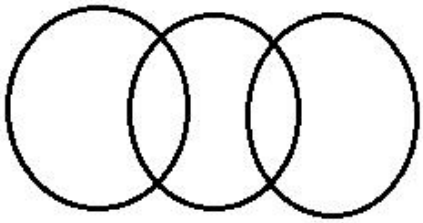

Downloaded From : http://sscportal.in/ Courtesy : SSC

Downloaded From : http://sscportal.in/

✗ 2. 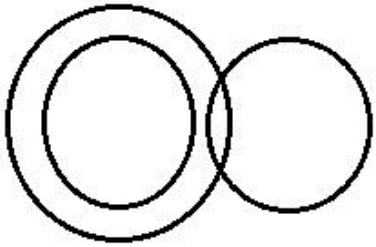

✓ 3. 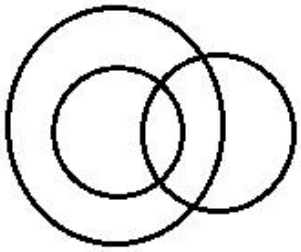

✗ 4. 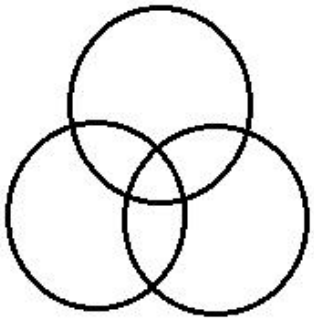

Q.15 किसी कूट भाषा में, SUNDAY को DNUAYS लिखा जाता है। उसी कूट भाषा में MOTHER को क्या लिखा जाएगा?

Ans

✗ 1. THEORM

✗ 2. HTEOMR

✗ 3. HOTERM

✓ 4. HTOERM

Q.16 उस विकल्प का चयन करें जो तीसरे पद से उसी प्रकार संबंधित है जैसे दूसरा पद पहले पद से संबंधित है।

29 : 13 :: 37 : ?

Ans

✗ 1. 14

✗ 2. 21

✓ 3. 17

✗ 4. 15

Downloaded From : http://sscportal.in/ Courtesy : SSC

Downloaded From : http://sscportal.in/

Q.17 निम्नलिखित चार-अक्षर समूहों में से तीन अक्षर-समूह किसी प्रकार से एकसमान हैं और एक असमान है। असमान अक्षर-समूह का चयन कीजिए।

Ans

✗ 1. KXJW

✗ 2. IVHU

✓ 3. GESO

✗ 4. MZLY

Q.18 यदि नीचे दी गई आकृति के दाएं ओर दर्पण रखा जाए तो बनने वाले सही दर्पण प्रतिबिंब का चयन कीजिए।

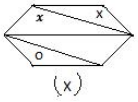

Ans

✗ 1. 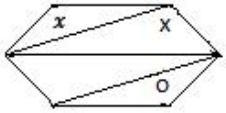

✓ 2. 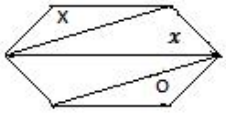

✗ 3. 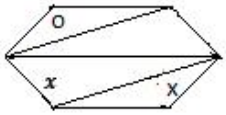

✗ 4. 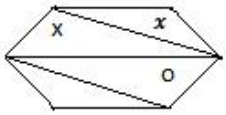

Q.19 P, Q का पिता और R, S का पुत्र है। T, P का भाई है। Q, R की बहन है। S का T से क्या संबंध है?

Ans

✗ 1. भाई

✗ 2. पुत्री

✗ 3. बहनोई

✓ 4. भाभी

Q.20 निम्नलिखित चार संख्याओं में से तीन संख्याएं किसी प्रकार एकसमान है और एक संख्या असमान है। उस असमान संख्या का चयन कीजिए।

Ans

✗ 1. 789

Downloaded From : http://sscportal.in/ Courtesy : SSC

Downloaded From : http://sscportal.in/

✗ 2. 123

✓ 3. 457

✗ 4. 567

Q.21 निम्नलिखित आकृति श्रृंखला में आने वाली अगली आकृति का चयन कीजिए।

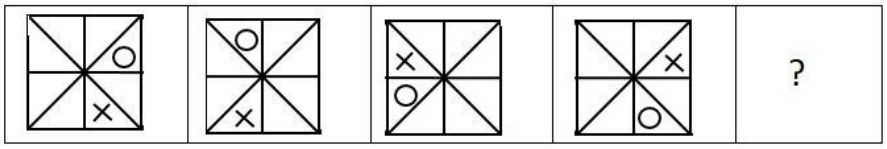

Ans

✗ 1.

✗ 2. 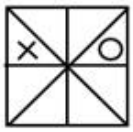

✗ 3.

✓ 4. 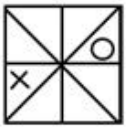

Q.22 उस समुच्चय का चयन कीजिए जिसमें संख्याएं उसी तरह आपस में संबंधित है जिस प्रकार संख्याएं नीचे दिए गए समुच्चय में आपस में संबंधित हैं।

(9, 15, 27)

Ans

✓ 1. (12, 20, 36)

✗ 2. (6, 9, 18)

✗ 3. (15, 25, 35)

✗ 4. (21, 35, 56)

Q.23 नीचे दिए गए समीकरण को सही करने के लिए किन दो चिन्हों को आपस में बदला जाना चाहिए।

$15 - 9 \div 6 \times 10 + 5 = 25$

Ans

Downloaded From : http://sscportal.in/ Courtesy : SSC

Downloaded From : http://sscportal.in/

✔ 1. + और –

✘ 2. + और ÷

✘ 3. × और ÷

✘ 4. × और –

Q.24 उस अक्षर संयोजन का चयन कीजिए जिसे नीचे दी गई अक्षर श्रृंखला के रिक्त स्थानों पर क्रमानुसार रखने से दी गई श्रृंखला पूर्ण हो जाए।

cb_db_cba_bc_bad_c

Ans

✘ 1. dcbcb

✔ 2. acdcb

✘ 3. acbcd

✘ 4. cabdc

Q.25 किसी वर्गाकार कागज को मोड़ने के क्रम (आकृति X और Y) और वह तरीका जिससे मुड़ा हुआ कागज काटा गया है (आकृति Z) को दर्शाया गया है। कागज को खोलने पर यह कैसा दिखाई देगा?

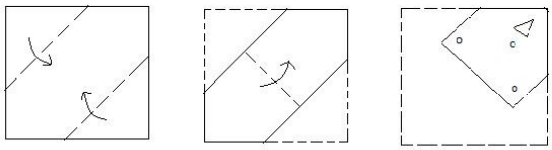

X Y Z

Ans

✘ 1. 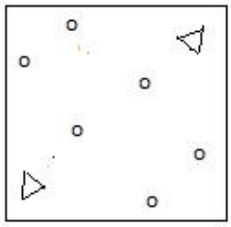

✘ 2. 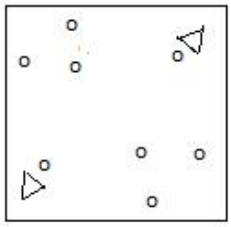

✘ 3. 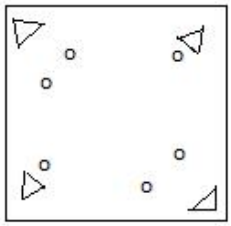

Downloaded From : http://sscportal.in/ Courtesy : SSC

Downloaded From : http://sscportal.in/

4.

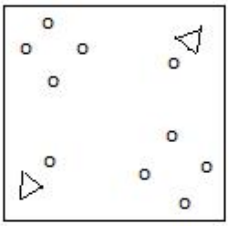

Downloaded From : http://sscportal.in/ Courtesy : SSC