Get SSC MTS Study Notes at : https://sscportal.in/notes

Comprehension:

In the following passage some words have been deleted. Fill in the blanks with the help of the alternatives given. Select the most appropriate option for each blank.

You must pace your work. What (1)_____ I mean? I'm glad you (2)_____ that question. We pace our work according (3)_____ the eight-hour workday. If you (4)_____ twelve hours of work in your in-box, for example, you must (5)_____ that work into the eight-hour day.

SubQuestion No : 24

Q.24 Select the most appropriate option to fill in blank no. 4.

Ans
✔ 1. have
✘ 2. are having
✘ 3. had
✘ 4. will have

Question ID : **65497814399**
Chosen Option : **1**

Comprehension:

In the following passage some words have been deleted. Fill in the blanks with the help of the alternatives given. Select the most appropriate option for each blank.

You must pace your work. What (1)_____ I mean? I'm glad you (2)_____ that question. We pace our work according (3)_____ the eight-hour workday. If you (4)_____ twelve hours of work in your in-box, for example, you must (5)_____ that work into the eight-hour day.

SubQuestion No : 25

Q.25 Select the most appropriate option to fill in blank no. 5.

Ans
✘ 1. expand
✘ 2. increase
✘ 3. stretch
✔ 4. compress

Question ID : **65497814400**
Chosen Option : **4**

Section : **General Intelligence and Reasoning**

Q.1 आठ मित्र P, Q, R, S, T, U, V और W इसी क्रम में दक्षिणावर्त रूप से एक गोल मेज के परित: एक-दूसरे से समान दूरी पर बैठे हैं। सभी मेज के केंद्र की ओर अभिमुख हैं। यदि U दक्षिण दिशा में बैठा है, तो उत्तर-पूर्व दिशा में कौन बैठा है?

Ans
✔ 1. R
✘ 2. T
✘ 3. Q
✘ 4. P

Question ID : **65497815039**
Chosen Option : **1**

FREE! Download SSC CGL, CHSL E-BOOKS CLICK HERE

Get SSC MTS Study Notes at : https://sscportal.in/notes

Q.2 निम्न श्रेणी में प्रश्नवाचक चिह्न (?) के स्थान पर कौन सी संख्या आएगी?

17, 17, 34, 102, 408, ?

Ans
✗ 1. 1620
✗ 2. 2440
✓ 3. 2040
✗ 4. 1550

Question ID : **65497815026**
Chosen Option : **3**

Q.3 एक निश्चित कूट भाषा में, यदि 'MINT' को 'TNIM' लिखा जाता है, तो उसी कूट भाषा में 'CORTEX' को क्या लिखा जाएगा?

Ans
✗ 1. XETRCO
✗ 2. XTEROC
✗ 3. XERTOC
✓ 4. XETROC

Question ID : **65497815028**
Chosen Option : **4**

Q.4 दिए गए पैटर्न का ध्यानपूर्वक अध्ययन कीजिए और उस संख्या का चयन कीजिए जो इसमें प्रश्नवाचक चिह्न (?) के स्थान पर आ सकती है।

15 4 161
12 3 117
16 5 ?

Ans
✗ 1. 143
✓ 2. 131
✗ 3. 120
✗ 4. 111

Question ID : **65497815025**
Chosen Option : **2**

Q.5 वर्गों के उस समुच्चय का चयन कीजिए जिनके मध्य के संबंध को निम्नांकित वेन आरेख द्वारा सर्वोत्तम रूप से निरूपित किया है।

Ans
✓ 1. पुस्तकें, रसोईघर, कारें
✗ 2. वाहन, पशु, बसें
✗ 3. पशु, ध्रुवीय भालू, बर्फ
✗ 4. भोजन, अनाज, मक्का

Question ID : **65497815046**
Chosen Option : **1**

FREE! Download SSC CGL, CHSL E-BOOKS CLICK HERE

Get SSC MTS Study Notes at : https://sscportal.in/notes

Q.6 उस विकल्प का चयन कीजिए जिसका तीसरे शब्द से वही संबंध है, जो दूसरे शब्द का पहले शब्द से है।

पुस्तकें : बस्ता : : गैस स्टोव : ?

Ans
✗ 1. भोजन
✓ 2. रसोईघर
✗ 3. गैस सिलिंडर
✗ 4. शेफ

Question ID : **65497815033**
Chosen Option : **2**

Q.7 उस विकल्प का चयन कीजिए जो अक्षर-समूह की निम्न श्रृंखला में प्रश्नवाचक चिह्न (?) के स्थान पर आएगा।

KTY, NXD, QBI, TFN, ?

Ans
✗ 1. WLT
✗ 2. WKR
✗ 3. VJS
✓ 4. WJS

Question ID : **65497815035**
Chosen Option : **4**

Q.8 दो कथन और उसके बाद दो निष्कर्ष I और II दिए गए हैं। यह मानते हुए कि कथन सत्य हैं, भले ही वे सामान्य रूप से ज्ञात तथ्यों से भिन्न प्रतीत होते हों, बताएं कि कौन सा/से निष्कर्ष दिए गए कथनों का तार्किक रूप से अनुसरण करता है / करते हैं।

कथन:
कोई भी दुकान रेस्टोरेंट नहीं है।
सभी रेस्टोरेंट पार्क हैं।

निष्कर्ष:
I. कुछ पार्क रेस्टोरेंट हैं।
II. कोई भी रेस्टोरेंट दुकान नहीं है।

Ans
✗ 1. केवल निष्कर्ष II अनुसरण करता है
✗ 2. केवल निष्कर्ष I अनुसरण करता है
✓ 3. निष्कर्ष I और II दोनों अनुसरण करते हैं
✗ 4. न तो निष्कर्ष I और न ही II अनुसरण करता है

Question ID : **65497815036**
Chosen Option : **2**

Q.9 एक निश्चित कूट भाषा में, यदि 'LOAN' को '15122613' लिखा जाता है, तो उसी कूट भाषा में 'DEUCE' को क्या लिखा जाएगा?

Ans
✗ 1. 232162421
✗ 2. 202272422
✓ 3. 232262422
✗ 4. 232292322

Question ID : **65497815030**
Chosen Option : **3**

FREE! Download SSC CGL, CHSL E-BOOKS CLICK HERE

Get SSC MTS Study Notes at : https://sscportal.in/notes

Q.10 यदि दर्पण को चित्रानुसार MN पर रखा जाए, तो दर्पण में निर्मित सही प्रतिबिंब का चयन कीजिए।

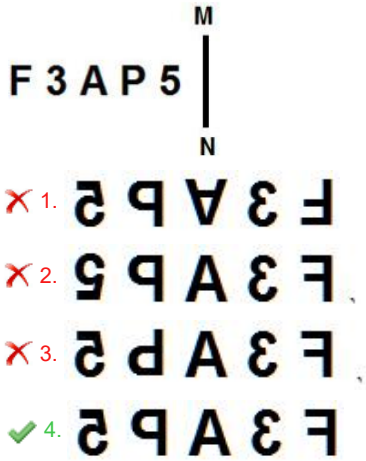

Ans

✗ 1.

✗ 2.

✗ 3.

✓ 4.

Question ID : **65497815044**
Chosen Option : **4**

Q.11 एक निश्चित कूट भाषा में, यदि 'FLOOD' को '25' और 'HINT' को '15' लिखा जाता है, तो उसी कूट भाषा में 'FAST' को क्या लिखा जाएगा?

Ans
✓ 1. 64
✗ 2. 18
✗ 3. 78
✗ 4. 60

Question ID : **65497815031**
Chosen Option : **1**

Q.12 निम्न श्रेणी में प्रश्नवाचक चिह्न (?) के स्थान पर कौन सी संख्या आएगी?

57, 71, 88, 109, 135, ?

Ans
✗ 1. 188
✓ 2. 167
✗ 3. 201
✗ 4. 175

Question ID : **65497815027**
Chosen Option : **2**

Q.13 उस विकल्प का चयन कीजिए जिसका तीसरे शब्द से वही संबंध है, जो दूसरे शब्द का पहले शब्द से है।

काठमांडू : नेपाल : : थिम्फू : ?

Ans
✓ 1. भूटान
✗ 2. श्रीलंका
✗ 3. चीन
✗ 4. मालदीव

Question ID : **65497815034**
Chosen Option : **1**

FREE! Download SSC CGL, CHSL E-BOOKS CLICK HERE

Get SSC MTS Study Notes at : https://sscportal.in/notes

Q.14 उस आकृति का चयन कीजिए जो निम्नांकित आकृति श्रृंखला में प्रश्नवाचक चिह्न (?) के स्थान पर आएगी।

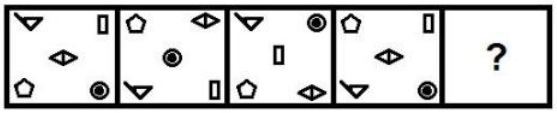

Ans

✗ 1. 

✗ 2. 

✗ 3. 

✓ 4. 

Question ID : **65497815041**
Chosen Option : **4**

Q.15 निम्न समीकरण को संतुष्ट करने के लिए किन दो चिह्नों को आपस में बदला जाना चाहिए?

4 + 5 – 16 × 4 ÷ 2 = 1

Ans

✓ 1. ÷ और ×

✗ 2. ÷ और –

✗ 3. + और –

✗ 4. + और ×

Question ID : **65497815022**
Chosen Option : **1**

Q.16 पांच लोग एक लाइन में खड़े हुए टिकट खरीदने की प्रतीक्षा कर रहे हैं। दीप्ति, हर्षा के ठीक पीछे खड़ी है। विनीता एकदम मृणाल के आगे खड़ी है। सिंधु ठीक दीप्ति के पीछे है। यदि विनीता लाइन में सबसे आगे खड़ी है, तो सबसे पीछे कौन खड़ी है?

Ans

✗ 1. हर्षा

✗ 2. मृणाल

✓ 3. सिंधु

✗ 4. दीप्ति

Question ID : **65497815038**
Chosen Option : **3**

FREE! Download SSC CGL, CHSL E-BOOKS CLICK HERE

Get SSC MTS Study Notes at : https://sscportal.in/notes

Q.17 उस विकल्प का चयन कीजिए जिसका तीसरे अक्षर-समूह से वही संबंध है, जो दूसरे अक्षर-समूह का पहले अक्षर-समूह से है।

NORWAY : YWRONA : : PORTUGAL : ?

Ans
✔ 1. UTRPOLGA
✘ 2. ATRPOGLU
✘ 3. URTOPLGA
✘ 4. UTPRLOGA

Question ID : **65497815032**
Chosen Option : **1**

Q.18 उस विकल्प आकृति का चयन कीजिए जो निम्नांकित आकृति श्रृंखला में प्रश्नवाचक चिह्न (?) के स्थान पर आएगी और पैटर्न को पूरा करेगी।

Ans
✔ 1.
✘ 2.
✘ 3.
✘ 4.

Question ID : **65497815042**
Chosen Option : **1**

Q.19 यदि G > T, H = B, T > H, M = T और B > K है, तो निम्न में से कौन सा व्यंजक सही है?

Ans
✘ 1. G = T
✘ 2. B > T
✘ 3. G < M
✔ 4. K < H

Question ID : **65497815040**
Chosen Option : **4**

FREE! Download SSC CGL, CHSL E-BOOKS CLICK HERE

Get SSC MTS Study Notes at : https://sscportal.in/notes

Q.20 एक निश्चित कूट भाषा में, यदि 'MARKS' को 'NASLT' और 'PORT' को 'QOSU' लिखा जाता है, तो उसी कूट भाषा में 'FINGER' को क्या लिखा जाएगा?

Ans
✗ 1. GJOHFS
✗ 2. EIOKFT
✓ 3. GIOHES
✗ 4. GIOFDS

Question ID : **65497815029**
Chosen Option : **3**

Q.21 उस विकल्प का चयन कीजिए जिसमें दी गई आकृति (X) इसके भाग के रूप में अंतर्निहित है (घुमाने की अनुमति नहीं है)।

(X)

Ans
✗ 1.
✓ 2.
✗ 3.
✗ 4.

Question ID : **65497815043**
Chosen Option : **2**

Q.22 निम्न समीकरण को संतुष्ट करने के लिए किन दो संख्याओं को आपस में बदला जाना चाहिए?

81 + 45 ÷ 3 – 18 × 9 = 32

Ans
✗ 1. 45 और 9
✓ 2. 3 और 9
✗ 3. 45 और 18
✗ 4. 81 और 18

Question ID : **65497815023**
Chosen Option : **2**

FREE! Download SSC CGL, CHSL E-BOOKS CLICK HERE

Get SSC MTS Study Notes at : https://sscportal.in/notes

Q.23 उस विकल्प का चयन कीजिए जिसका तीसरी संख्या से वही संबंध है, जो दूसरी संख्या का पहली संख्या से है।

7 : 53 : : 9 : ?

Ans
✔ 1. 85
✘ 2. 99
✘ 3. 112
✘ 4. 101

Question ID : **65497815024**
Chosen Option : **1**

Q.24 एक कागज को निम्नानुसार मोड़ा और काटा गया है। इसे खोलने पर यह कैसा दिखेगा?

Ans
✘ 1.
✔ 2.
✘ 3.
✘ 4.

Question ID : **65497815045**
Chosen Option : **2**

Q.25 दो कथन और उसके बाद तीन निष्कर्ष I, II और III दिए गए हैं। यह मानते हुए कि कथन सत्य हैं, भले ही वे सामान्य रूप से ज्ञात तथ्यों से भिन्न प्रतीत होते हों, बताएं कि कौन सा/से निष्कर्ष दिए गए कथनों का तार्किक रूप से अनुसरण करता है / करते हैं।

कथन:
सभी कौवे, गौरैया हैं।
सभी बतखें गौरैया हैं।

निष्कर्ष:
I. कोई भी गौरैया कौवा नहीं है।
II. कोई भी कौवा बतख नहीं है।
III. कुछ कौवे बतख हैं।

Ans
✔ 1. निष्कर्ष II या III में से कोई एक अनुसरण करता है
✘ 2. केवल निष्कर्ष I और III अनुसरण करते है
✘ 3. केवल निष्कर्ष II और III अनुसरण करते हैं
✘ 4. केवल निष्कर्ष I और II अनुसरण करते हैं

Question ID : **65497815037**
Chosen Option : **1**

FREE! Download SSC CGL, CHSL E-BOOKS CLICK HERE