Downloaded From : http://sscportal.in/

कर्मचारी चयन आयोग
संयुक्त स्नातक स्तरीय परीक्षा

एस.एस.सी. सीजीएल (टियर -1) परीक्षा पेपर 2017 "12 अगस्त 2017" शाम की पाली (तर्क शक्ति) SSC CGL (Tier - 1) Online Exam Paper - 2017 "held on 12 August 2017" Evening Shift (Reasoning)

QID : 201 - निम्नलिखित प्रश्न में दिए गए विकल्पों में से संबंधित शब्द को चुनिए।

पुस्तक : पन्ने : : महाद्वीप : ?

Options:

1) जल

2) जंगल

3) देशो

4) भूमि

Correct Answer: देशो

QID : 202 - निम्नलिखित प्रश्न में दिए गए विकल्पों में से संबंधित अक्षरों को चुनिए।

JKLM : IIII : : PQRS : ?

Options:

1) PPPP

2) OOOO

3) TTTT

4) OOPP

Correct Answer: OOOO

QID : 203 - निम्नलिखित प्रश्न में दिए गए विकल्पों में से संबंधित संख्या को चुनिए।

Downloaded From : http://sscportal.in/ Courtesy : SSC

Downloaded From : http://sscportal.in/

4 : 17 : : 7 : ?

Options:

1) 49

2) 50

3) 51

4) 52

Correct Answer: 50

QID : 204 - निम्नलिखित प्रश्न में दिए गए विकल्पों में से विषम शब्द युग्म को चुनिए।

Options:

1) उदास : आशामय

2) आनन्दित : अति आनन्दित

3) ऊँचा : विशाल

4) पगडंडी : पथमार्ग

Correct Answer: उदास : आशामय

QID : 205 - निम्नलिखित प्रश्न में दिए गए विकल्पों में से विषम अक्षरों को चुनिए।

Options:

1) FHJ

2) LNQ

3) JLN

4) NPR

Correct Answer: LNQ

QID : 206 -निम्नलिखित प्रश्न में दिए गए विकल्पों में से विषम संख्या युग्म को चुनिए।

Options:

1) 11 – 121

2) 13 – 169

3) 19 – 391

4) 21 – 441

Correct Answer: 19 – 391

QID : 207 - निम्नलिखित शब्दों को शब्दकोश में आने वाले क्रम के अनुसार लिखें।

Downloaded From : http://sscportal.in/ Courtesy : SSC

Downloaded From : http://sscportal.in/

1. Feeble
2. From
3. Floor
4. Foam
5. Fluorescent

Options:

1) 13542

2) 15342

3) 13524

4) 15324

Correct Answer: 13542

QID : 208 - एक अनुक्रम दिया गया है, जिसमें से एक पद लुप्त है। दिए गए विकल्पों में से वह सही विकल्प चुनिए, जो अनुक्रम को पूरा करे।

A, E, I, M, ?

Options:

1) P

2) Q

3) R

4) O

Correct Answer: Q

QID : 209 - निम्नलिखित प्रश्न में दिए गए विकल्पों में से लुप्त अंक ज्ञात कीजिए।

1, 3, 6, 11, 18, ?

Options:

1) 27

2) 28

3) 29

4) 31

Correct Answer: 29

QID : 210 - एक व्यक्ति की और संकेत करते हुए रीतिका ने कहा, "वह मेरे दादाजी के एकमात्र पुत्र का पुत्र है।" रीतिका उस व्यक्ति से किस प्रकार संबंधित है?

Downloaded From : http://sscportal.in/ Courtesy : SSC

Downloaded From : http://sscportal.in/

Options:

1) बुआ

2) बहन

3) माता

4) पत्नी

Correct Answer: बहन

QID : 211 - चार पुस्तकों में पुस्तक 1, पुस्तक 2 से दोगुनी भारी है। पुस्तक 3 का भार पुस्तक 2 के भार का आधा है। पुस्तक 4 का भार पुस्तक 2 की तुलना में 60 ग्राम अधिक है लेकिन पुस्तक 1 की तुलना में 60 ग्राम कम है। कौन सी पुस्तक सबसे भारी है?

Options:

1) पुस्तक 1

2) पुस्तक 2

3) पुस्तक 3

4) पुस्तक 4

Correct Answer: पुस्तक 1

QID : 212 - दिए गए प्रश्न में, निम्नलिखित विकल्पों में से वह शब्द चुनिए जो दिए गए शब्द के अक्षरों का प्रयोग करके नहीं बनाया जा सकता है।

Improvement

Options:

1) Rope

2) Trim

3) Important

4) Prove

Correct Answer: Important

QID : 213 - एक विशिष्ट कोड भाषा में, "MASTER" को "682145" लिखा जाता है तथा "STAMP" को "21869" लिखा जाता है। इस कोड भाषा में "PASTE" को किस प्रकार लिखा जाएगा?

Options:

1) 82145

2) 98214

3) 69218

4) 95184

Correct Answer: 98214

QID : 214 - यदि "K" का अर्थ "गुणा" है, "M" का अर्थ "घटाव" है, "J" का अर्थ "जोड़" है तथा "L" का अर्थ "भाग" है, तो

Downloaded From : http://sscportal.in/ Courtesy : SSC

Downloaded From : http://sscportal.in/

44 M 24 K 56 L 14 J 60 = ?

Options:

1) 16

2) 72

3) 8

4) 140

Correct Answer: 8

QID : 215 - यदि 27 (15) 33 तथा 41 (13) 53 हो, तो 26 (A) 35 में, 'A' का मान क्या है?

Options:

1) 16

2) 13

3) 14

4) 11

Correct Answer: 16

QID : 216 -

In the following question, select the number which can be placed at the sign of question mark (?) from the given alternatives.

निम्नलिखित प्रश्न में दिए गए विकल्पों में से प्रश्न चिन्ह (?) के स्थान पर आने वाली संख्या को चुनिए।

3	2
5	4
1	7

1	2
7	6
4	2

2	1
3	11
1	?

Options:

1) 2

2) 4

3) 6

Downloaded From : http://sscportal.in/ Courtesy : SSC

कर्मचारी चयन आयोग (CGL) परीक्षा अध्ययन सामग्री

- 100% Syllabus Covered
- 4 Books, 900+ Pages
- 2500+ MCQs
- 08 Year Solved Papers & Mock Tests (PDF Copy)
- 1 year Current Affairs (PDF Copy)

50% OFF

~~₹ 4,200/-~~
₹ 2,100/-

FREE SHIPPING

for Exam Help Call Us at: +91 8800734161

SSCPORTAL.IN

आप क्या प्राप्त करेंगे?

- माध्यमः हिन्दी
- 100% पाठयक्रम
- कुल 4 पुस्तिकायें, 900 से अधिक पृष्ठ
- 2,500 से अधिक वस्तुनिष्ठ प्रश्न (MCQ)
- 8 Year Solved Papers (PDF Copy)
- Five Practice Papers (PDF Copy)
- हमारे विशेषज्ञों द्वारा मार्गदर्शन और सहायता

Price of the Kit:

~~Rs. 4,200~~

Rs. 2,100/-

(Limited time Offer)

Buy Online

VISA Maestro MasterCard RuPay

Net Banking

Order Online (100% Safe)

Click here for Other Payment Options (Cash/NEFT/etc)

FOR MORE DETAILS CLICK HERE

50% OFF

Downloaded From : http://sscportal.in/

4) 8

Correct Answer: 4

QID : 217 -

How many triangles are there in the given figure?

दी गई आकृति में कितने त्रिभुज हैं?

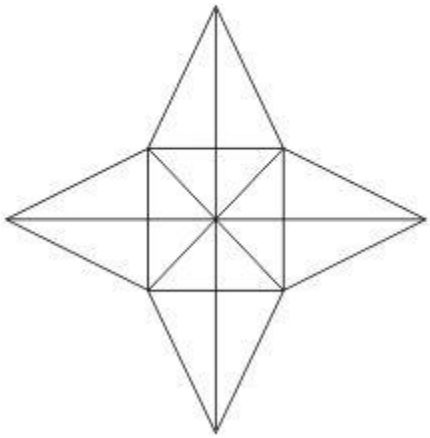

Options:

1) 28

2) 36

3) 40

4) 48

Correct Answer: 36

QID : 218 - नीचे दिए गए प्रत्येक प्रश्न में कुछ कथन और उनके बाद उन कथनों पर आधारित कुछ निष्कर्ष दिए गए हैं, हालांकि उनमें सामान्य ज्ञात तथ्यों से भिन्नता हो सकती है। सभी निष्कर्ष पढ़ें और फिर निर्धारित करें कि दिए गए कौन से निष्कर्ष दिए गए कथनों के आधार पर युक्तिसंगत हैं।

कथनः

I. कुछ पेन पेसिंल हैं।

II. कुछ पेन रबर हैं।

निष्कर्षः

Downloaded From : http://sscportal.in/ Courtesy : SSC

Downloaded From : http://sscportal.in/

I. कुछ पेसिंल रबर हैं।

II. सभी रबर पेन हैं।

Options:

1) केवल निष्कर्ष (I) सही है।

2) केवल निष्कर्ष (II) सही है।

3) दोनों ही निष्कर्ष सही है।

4) न तो निष्कर्ष (I) न ही निष्कर्ष (II) सही है।

Correct Answer: न तो निष्कर्ष (I) न ही निष्कर्ष (II) सही है।

QID : 219 -

Two positions of a cube are shown below. What will come opposite to face containing 'δ'?

नीचे एक घन की दो अवस्थाएँ दर्शायी गयी है। प्रतीक चिह्न 'δ' के विपरीत फलक पर कौन सा प्रतीक चिह्न आयेगा?

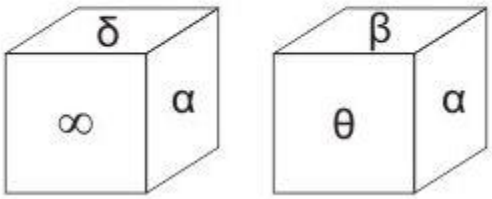

Options:

1) δ

2) θ

3) β या θ

4) β

Correct Answer: β

QID : 220 -

Downloaded From : http://sscportal.in/ Courtesy : SSC

Downloaded From : http://sscportal.in/

In the given figure, how many cardboard boxes are not white?

दी गई आकृति में, कितने गत्ते के डिब्बे जो सफेद नहीं हैं?

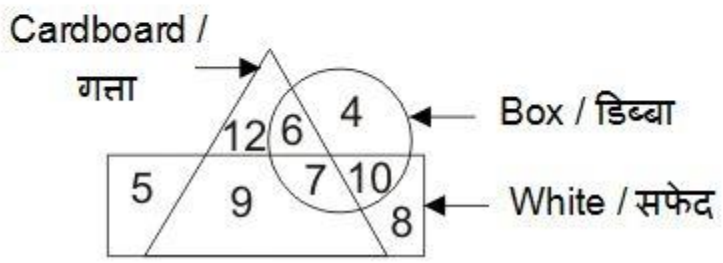

Options:

1) 6

2) 13

3) 7

4) 9

Correct Answer: 6

QID : 221 -

Which answer figure will complete the pattern in the question figure?

कौन सी उत्तर आकृति प्रश्न आकृति के प्रतिरूप को पूरा करेगी?

Options:

1)

Downloaded From : http://sscportal.in/ Courtesy : SSC

Downloaded From : http://sscportal.in/

2)

3)

4)

Correct Answer:

QID : 222 -

Downloaded From : http://sscportal.in/ Courtesy : SSC

SSC CGL Tier-1 Printed Study Kit

- 100% Syllabus Covered
- 12 Books, 1300+ Pages
- 5600+ MCQs
- 08 Year Solved Papers & Mock Tests (PDF Copy)
- 1 year Current Affairs (PDF Copy)

50% OFF

~~₹ 6,000/-~~
₹ 2,999/-

FREE SHIPPING

for Exam Help Call Us at: +91 8800734161

SSCPORTAL.IN

What you will get:

- 100% Syllabus Covered
- 12 Books
- 1300+ Pages
- 5600+ MCQs
- 8 Year Solved Papers *(PDF Copy)*
- Five Practice Papers *(PDF Copy)*
- One Year Current Affairs *(PDF Copy)*
- Guidance & Support from Our Experts

Price of the Kit:

~~Rs. 6,000~~

Rs. 2,999/-

(Limited time Offer)

Buy Online

VISA Maestro MasterCard RuPay

Net Banking

Order Online (100% Safe)

Click here for Other Payment Options (Cash/NEFT/etc)

FOR MORE DETAILS CLICK HERE

50% OFF

Downloaded From : http://sscportal.in/

From the given answer figures, select the one in which the question figure is hidden/embedded.

दी गई उत्तर आकृतियों में से उस उत्तर आकृति को चुनिए जिस में प्रश्न आकृति निहित है।

Options:

1)

2)

3)

4)

Correct Answer:

Downloaded From : http://sscportal.in/ Courtesy : SSC

Downloaded From : http://sscportal.in/

QID : 223 -

A piece of paper is folded and punched as shown below in the question figures. From the given answer figures, indicate how it will appear when opened?

नीचे के प्रश्न आकृतियों में दिखाए अनुसार कागज को मोड़कर छेदने तथा खोलने के बाद वह किस उत्तर आकृति जैसा दिखाई देगा?

Options:

1)

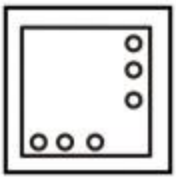

2)

3)

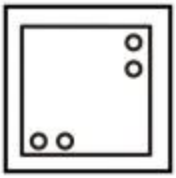

4)

Downloaded From : http://sscportal.in/ Courtesy : SSC

Downloaded From : http://sscportal.in/

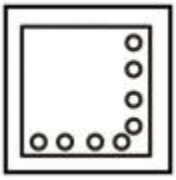

Correct Answer:

QID : 224 -

If a mirror is placed on the line AB, then which of the answer figures is the right image of the given figure?

यदि एक दर्पण को AB रेखा पर रखा जाए, तो दी गई उत्तर आकृतियों में से कौन सी आकृति प्रश्न आकृति की सही प्रतिबिम्ब होगी?

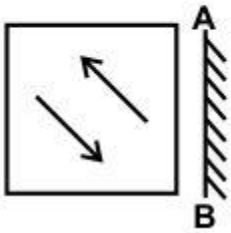

Options:

1)

2)

3)

Downloaded From : http://sscportal.in/ Courtesy : SSC

Downloaded From : http://sscportal.in/

4)

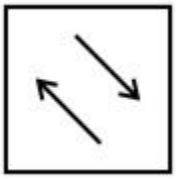

Correct Answer:

QID : 225 -

Downloaded From : http://sscportal.in/ Courtesy : SSC

Downloaded From : http://sscportal.in/

A word is represented by only one set of numbers as given in any one of the alternatives. The sets of numbers given in the alternatives are represented by two classes of alphabets as shown in the given two matrices. The columns and rows of **Matrix-I** are numbered from 0 to 4 and that of **Matrix-II** are numbered from 5 to 9. A letter from these matrices can be represented first by its row and next by its column, for example, **'E'** can be represented by 23, 41, etc., and **'P'** can be represented by 56, 97, etc. Similarly, you have to identify the set for the word **"GREAT"**.

एक शब्द केवल एक संख्या-समूह द्वारा दर्शाया गया है, जैसा कि विकल्पों में से किसी एक में दिया गया है। विकल्पों में दिए गए संख्या-समूह अक्षरों के दो वर्गों द्वारा दर्शाए गए हैं, जैसा कि दिए गए दो आव्यूहों में है। **आव्यूह-I** के स्तम्भ और पंक्ति की संख्या 0 से 4 है और **आव्यूह-II** की 5 से 9। इन आव्यूहों से एक अक्षर को पहले उसकी पंक्ति और बाद में स्तम्भ संख्या द्वारा दर्शाया जा सकता है। उदाहरण के लिए **'E'** को 23, 41, आदि द्वारा दर्शाया जा सकता है तथा **'P'** को 56, 97, आदि द्वारा दर्शाया जा सकता है। इसी तरह से आपको प्रश्न में दिए शब्द **"GREAT"** के लिए समूह को पहचानना है।

Matrix-I

आव्यूह-I

	0	1	2	3	4
0	E	R	G	L	O
1	G	L	E	O	R
2	R	O	L	E	G
3	L	G	O	R	E
4	O	E	R	G	L

Matrix-II

आव्यूह-II

	5	6	7	8	9
5	M	P	S	T	A
6	P	S	T	A	M
7	T	M	A	S	P
8	S	A	M	P	T
9	A	T	P	M	S

Options:

1) 10, 14, 00, 59, 97

2) 31, 33, 41, 67, 76

3) 43, 01, 23, 95, 89

4) 24, 42, 11, 86, 95

Correct Answer: 43, 01, 23, 95, 89

Downloaded From : http://sscportal.in/ Courtesy : SSC