Downloaded From : http://sscportal.in/

कर्मचारी चयन आयोग
कनिष्ठ अभियन्ता

एस.एस.सी. कनिष्ठ अभियन्ता परीक्षा पेपर 2016 "04 मार्च 2017"दोपहर की पाली (सामान्य अभियांत्रिकी) SSC Junior Engineers (JE) Online Exam Paper - 2016 "held on 04 March 2017" Afternoon Shift (General Engineering)

QID : 601 -
कोई धारा, प्रतिवर्ती कहलाती है, यदि इसका _____ परिवर्तित होता है।

Options:
1)केवल परिमाण

2)केवल दिशा

3)परिमाण और दिशा दोनों

4)इनमें से कोई नहीं

Correct Answer: परिमाण और दिशा दोनों

QID : 602 -
ज्या तरंग का आर.एम.एस. मान 100 A है। इसका उच्चतम मान _____ होगा।

Options:
1) 70.7 A

2) 141.4 A

3) 150 A

4) 282.8 A

Correct Answer: 141.4 A

Downloaded From : http://sscportal.in/ Courtesy : SSC

Downloaded From : http://sscportal.in/

QID : 603 -

एक गतिमान लौह (मूविंग आइरन) वोल्टमीटर और दिष्टकारी प्रकार के ए.सी. वोल्टमीटर को समानांतर में जुड़े होने पर वह 50 हर्ट्ज ए.सी. वोल्टेज को मापती है। यदि क्रमश: V1 और V2 मीटर पाठ्यांक हों और मीटर, अंशशोधन त्रुटि से मुक्त हो, तो ए सी वोल्टेज के फोरम फेक्टर का अनुमान _____ से किया जा सकता है।

Options:

1) V1/V2

2) 1.11 V1/V2

3) 2 V1/V2

4) π V1/2V2

Correct Answer: 1.11 V1/V2

QID : 604 -

10 A एकदिष्ट धारा और 20 A उच्चतम मान की ज्यावक्रीय प्रतिवर्ती धारा का परिणामतः वहन करने वाली तार के कुल धारा का आर.एम.एस. मान क्या होगा?

Options:

1) 14.1 A

2) 17.3 A

3) 22.4 A

4) 30 A

Correct Answer: 17.3 A

QID : 605 -

दो ज्यावक्रिया ई.एम.एफ., e1=A sin(ωt+π/4) और e2=B sin(ωt-π/6) से दर्शाया गया है। दोनों मात्राओं के बीच कालांतर, डिग्री में, _____ होगा।

Options:

1) 75

2) 105

3) 60

4) 15

Correct Answer: 75

QID : 606 -

निम्नलिखित में से कौन सा कथन केवल प्रतिरोध से संबन्धित है?

Options:

1) ये वोल्टेज में आकस्मिक परिवर्तन को रोकते हैं।

2) ये ऊर्जा भंडारण यंत्र के रूप में कार्य करते हैं।

3) यह ऐच्छिक राशि की शक्ति को विसरित कर सकते हैं।

4) इनमें से कोई नहीं

Correct Answer: यह ऐच्छिक राशि की शक्ति को विसरित कर सकते हैं।

Downloaded From : http://sscportal.in/ Courtesy : SSC

Downloaded From : http://sscportal.in/

QID : 607 -

The current waveform in a pure resistor of 10 Ω is shown in the given figure. Power dissipated in the resistor is:-

10 Ω के शुद्ध प्रतिरोध का धारा तरंगरूप आकृतरी में दर्शाया गया है । प्रतिरोध में निष्पादित शक्ति होगी :

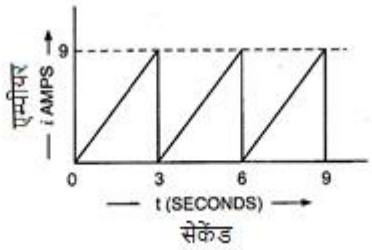

Options:

1) 7.29 W

2) 52.4 W

3) 135 W

4) 270 W

Correct Answer: 270 W

QID : 608 -

शुद्ध प्रेरित परिपथ एसी मेन्स से शक्ति लेता है, जब _____

Options:

1) आपूर्तित वोल्टेज और धारा दोनों बढ़ती हैं।

2) आपूर्तित वोल्टेज और धारा दोनों घटती हैं।

3) आपूर्तित वोल्टेज घटती है परंतु धारा बढ़ती है।

4) आपूर्तित वोल्टेज बढ़ती है परंतु धारा घटती है।

Correct Answer: आपूर्तित वोल्टेज घटती है परंतु धारा बढ़ती है।

QID : 609 -

एक शुद्ध संधारित्र 50 हर्ट्ज 230 वॉल्ट आपूर्ति से जुडने पर 0.04 वाट का उपभोग करता है। इस उपभोग के लिए _____ उत्तरदायी है।

Options:

1) प्लेट में ओहम प्रतिरोध के कारण ओहमिक क्षय

2) परावैदयुत में ऊर्जा का क्षय

3) ओहम में संधारित्र प्रतिघात

4) प्लेट में ओहम प्रतिरोध के कारण ओहमिक क्षय और परावैदयुत में ऊर्जा का क्षय दोनों

Correct Answer: प्लेट में ओहम प्रतिरोध के कारण ओहमिक क्षय और परावैदयुत में ऊर्जा का क्षय दोनों

QID : 610 -

प्लेट क्षेत्रफल 5 सेमी2 और प्लेट के बीच पृथक अंतराल 5 मि.मी. वाले समांतर प्लेट संधारित्र में 50sin1000t V की वोल्टेज आपूर्ति की जाती है। यदि संधारित्र में परावैद्युत सामग्री ?=2?0 हो, तो संधारित्र धारा (एम्पियर में) क्या होगी?

Downloaded From : http://sscportal.in/ Courtesy : SSC

Downloaded From : http://sscportal.in/

Options:

1) [104/?0]cos103t

2) ?0104cos103t

3) [104/?0]sin103t

4) ?0104sin103t

Correct Answer: ?0104cos103t

QID : 611 -

For the AC circuit as shown below, if the rms voltage across the resistor is 120 V, what is the value of the inductor?

नीचे दिये अनुसार एसी परिपथ के लिए, यदि प्रतिरोध के साथ आरएमएस वोल्टेज 120V हो, तो प्रेरित्र का मान क्या होगा?

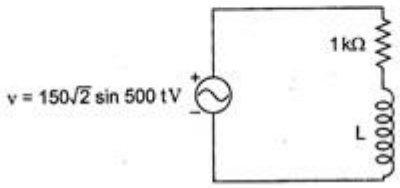

Options:

1) 0.5 H

2) 0.6 H

3) 1 H

4) 1.5 H

Correct Answer: 1.5 H

QID : 612 -

The R-L circuit of the figure is fed from a constant magnitude variable frequency sinusoidal voltage source v_in. At 100 Hz, the R and L element each has a voltage drop U_{rms} If the frequency of the source is changed to 50 Hz, then new voltage drop across R is:-

आकृति में R-L परिपथ को अचर परिमाण, चर आवृति ज्यावक्रिय वोल्टेज स्रोत v_in से आपूर्ति की जाती है । 100 हर्ट्ज पर, R और L दोनों में वोल्टेज ड्रॉप U_{rms} होता है। यदि स्रोत की आवृति 50 हर्ट्ज बदल जाए तो R के साथ वोल्टेज ड्रॉप _____ होगा:-

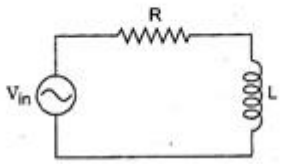

Downloaded From : http://sscportal.in/ Courtesy : SSC

Downloaded From : http://sscportal.in/

Options:

1)

$\sqrt{\frac{5}{8}}U_{rms}$

2)

$\sqrt{\frac{2}{3}}U_{rms}$

3)

$\sqrt{\frac{8}{5}}U_{rms}$

4)

$\sqrt{\frac{3}{2}}U_{rms}$

Correct Answer:

$\sqrt{\frac{8}{5}}U_{rms}$

QID : 613 -

कोई निश्चित R-L श्रेणी संयोजन 50 हर्ट्ज एकल फेज ए.सी. सप्लाई से जुड़ा है। यदि एक चक्र में 2 मिलिसेकंड तक तात्कालिक शक्ति ऋणात्मक पाई गई, तो परिपथ का शक्ति घटक कोण क्या होगा?

Options:

1) 9°

2) 18°

3) 36°

4) 45°

Correct Answer: 36°

QID : 614 -

किसी परिपथ की वोल्टता (वोल्टेज) कलासमंजक 10∠15°V और धारा कलासमंजक 2∠- 45°A है। परिपथ में सक्रिय और प्रतिक्रिया शक्ति क्या होगी?

Options:

1) 10 W और 17.32 VAR

2) 5 W और 8.66 VAR

3) 20 W और 60 VAR

4) 20√2 W और 10√2 VAR

Correct Answer: 10 W और 17.32 VAR

QID : 615 -

एक RLC परिपथ में, जो कि एक ए.सी स्रोत्र से ऊर्जा लेता है, प्रतिघाती शक्ति _____के समानुपाती होगी।

Downloaded From : http://sscportal.in/ Courtesy : SSC

Downloaded From : http://sscportal.in/

Options:

1) एलेक्ट्रिव फील्ड में संचयित ऊर्जा

2) मैग्नेटिक फील्ड में संचयित ऊर्जा

3) एलेक्ट्रिव फील्ड और मैग्नेटिक फील्ड में संचयित औसत ऊर्जा का योग

4) एलेक्ट्रिव फील्ड और मैग्नेटिक फील्ड में संचयित औसत ऊर्जा का अंतर

Correct Answer: एलेक्ट्रिव फील्ड और मैग्नेटिक फील्ड में संचयित औसत ऊर्जा का अंतर

QID : 616 -

गैसों में, धारा का प्रवाह _____ से होता है।

Options:

1) केवल इलेक्ट्रॉन्स

2) धनात्मक और ऋणात्मक आयन

3) इलेक्ट्रॉन, धनात्मक आयन

4) इलेक्ट्रॉन्स, धनात्मक आयन और ऋणात्मक आयन

Correct Answer: इलेक्ट्रॉन्स, धनात्मक आयन और ऋणात्मक आयन

QID : 617 -

ओहम का नियम _____ में लागू होता है।

Options:

1) अर्धचालक

2) निर्वात नलिकाएँ

3) विदयुत अपघट्य

4) इनमें से कोई नहीं

Correct Answer: इनमें से कोई नहीं

QID : 618 -

शुद्ध धातु में समान्यत: _____ होता है।

Options:

1) उच्च चालकता और निम्न तापमान गुणांक

2) उच्च चालकता और अधिक तापमान गुणांक

3) निम्न चालकता और शून्य तापमान गुणांक

4) निम्न चालकता और उच्च तापमान गुणांक

Correct Answer: उच्च चालकता और अधिक तापमान गुणांक

QID : 619 -

10 कि.मी. लंबी केबल का इंसुलेशन प्रतिरोध 1 MΩ है। 100 कि.मी. लंबाई की समान केबल का इंसुलेशन प्रतिरोध _____ होगा।

Options:

1) 1 MΩ

2) 10 MΩ

3) 0.1 MΩ

Downloaded From : http://sscportal.in/ Courtesy : SSC

Downloaded From : http://sscportal.in/

4) 0.01 MΩ

Correct Answer: 0.1 MΩ

QID : 620 -

All the resistances in figure shown below are 1 Ω each. The value of current 'I' is:-

दर्शाई गई आकृति में सभी प्रतिरोध 1 Ω के हैं। धारा 'I' का मान _____होगा:-

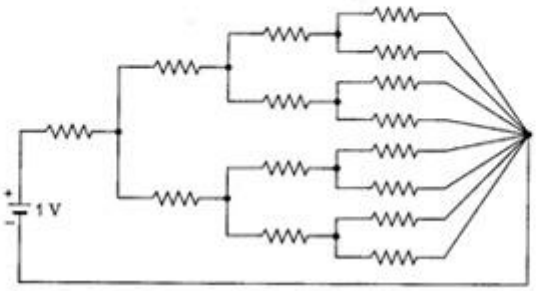

Options:

1) 1/15 A

2) 2/15 A

3) 4/15 A

4) 8/15 A

Correct Answer: 8/15 A

QID : 621 -

निम्नलिखित में से कौन विदयुत धारा के ऊष्मीय प्रभाव का प्रयोग नहीं करता है?

Options:

1) विदयुत भट्टी

2) उष्णोत्स (गीजर)

3) विदयुत इस्त्री

4) निर्वात मार्जक (वेकयुम क्लीनर)

Correct Answer: निर्वात मार्जक (वेकयुम क्लीनर)

Downloaded From : http://sscportal.in/ Courtesy : SSC

Downloaded From : http://sscportal.in/

QID : 622 -

In the figure given below, the value of:-

नीचे दी आकृति में, R का मान ____ होगा :-

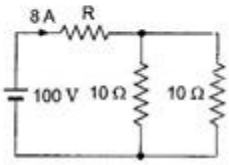

Options:

1) 2.5 Ω

2) 5 Ω

3) 7.5 Ω

4) 10 Ω

Correct Answer: 7.5 Ω

QID : 623 -

चार 100W के बल्ब 200V आपूर्ति लाइन से जुड़े हैं। यदि एक बल्ब फ्यूज हो जाए तो, _____

Options:

1) कोई बल्ब दीप्त नहीं होगा।

2) चारों बल्ब दीप्तित होंगे ।

3) शेष तीनों बल्ब दीप्तित होंगे ।

4) इनमें से कोई नहीं

Correct Answer: शेष तीनों बल्ब दीप्तित होंगे ।

QID : 624 -

एक 100 वाट का प्रकाश बल्ब एक सप्ताह में, प्रतिदिन 10 घंटे जलता है। ऊर्जा का साप्ताहिक उपभोग क्या होगा?

Options:

1) 7 इकाई

2) 70 इकाई

3) 0.7 इकाई

4) 0.07 इकाई

Correct Answer: 7 इकाई

QID : 625 -

वह अवयव जो स्वत: ऊर्जा प्रदान करने के लिए सक्षम नहीं होता है, _____ के रूप में जाना जाता है।

Options:

1) एकपक्षीय अवयव

2) अरेखीय अवयव

Downloaded From : http://sscportal.in/ Courtesy : SSC

Downloaded From : http://sscportal.in/

3) निष्क्रिय अवयव

4) सक्रिय अवयव

Correct Answer: निष्क्रिय अवयव

QID : 626 -

किसी नेटवर्क में 4 निस्पंद (नोड्स) और 3 स्वतंत्र पाश (लूप) हैं। नेटवर्क में शाखाओं की संख्या क्या होगी?

Options:

1) 5

2) 6

3) 7

4) 8

Correct Answer: 6

QID : 627 -

N > 2 नोड्स के जुड़े नेटवर्क में किसी भी निस्पंद (नोड्स) के जोड़ो को सीधे मिलाने के लिए न्यूनतम एक शाखा होती है। नेटवर्क के ग्राफ में _____

Options:

1) कम से कम एक या अधिक बंद पथों के अस्तित्व के लिए N शाखाएँ अवश्य होनी चाहिए।

2) असीमित संख्या की शाखाएँ हो सकती हैं।

3) अधिकतम N शाखाएँ हो सकती हैं।

4) शाखाओं की न्यूनतम संख्या हो सकती है, जोकि N से निर्णीत नहीं होगी।

Correct Answer: कम से कम एक या अधिक बंद पथों के अस्तित्व के लिए N शाखाएँ अवश्य होनी चाहिए।

QID : 628 -

The determinant of the matrix $\begin{bmatrix} 1 & 0 & 0 & 0 \\ 100 & 1 & 0 & 0 \\ 100 & 200 & 1 & 0 \\ 100 & 200 & 300 & 1 \end{bmatrix}$ is:-

आव्यूह $\begin{bmatrix} 1 & 0 & 0 & 0 \\ 100 & 1 & 0 & 0 \\ 100 & 200 & 1 & 0 \\ 100 & 200 & 300 & 1 \end{bmatrix}$ का सारणिक _____ होगा :-

Options:

1) 100

2) 200

Downloaded From : http://sscportal.in/ Courtesy : SSC

Downloaded From : http://sscportal.in/

3) 1

4) 300

Correct Answer: 1

QID : 629 -

आदर्श वोल्टेज स्रोत में _____ होता है।

Options:

1) शून्य आंतरिक प्रतिरोध

2) अनंत आंतरिक प्रतिरोध

3) धारा का निम्न मान

4) ई.एम.एफ. का अधिक मान

Correct Answer: शून्य आंतरिक प्रतिरोध

QID : 630 -

100V अनावृत परिपथ वोल्टेज और 50 Ω आंतरिक प्रतिरोध वाले वोल्टेज स्रोत के समतुल्य धारा स्रोत _____ होगा।

Options:

1)50 Ω के साथ समांतर में 2 A

2)50 Ω के साथ श्रेणी में 2 A

3)50 Ω के साथ समांतर में 0.5 A

4)100 Ω के साथ समांतर में 2 A

Correct Answer: 50 Ω के साथ समांतर में 2 A

QID : 631 -

Consider the circuit given below. What is the power delivered by the 24 V source?

नीचे दिये परिपथ पर विचार कीजिये । 24V स्रोत द्वारा दी जाने वाली शक्ति कितनी होगी?

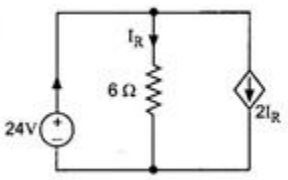

Options:

1) 96 W

2) 114 W

3) 192 W

4) 288 W

Downloaded From : http://sscportal.in/ Courtesy : SSC

कर्मचारी चयन आयोग (CGL) परीक्षा अध्ययन सामग्री

- 100% Syllabus Covered
- 4 Books, 900+ Pages
- 2500+ MCQs
- 08 Year Solved Papers & Mock Tests (PDF Copy)
- 1 year Current Affairs (PDF Copy)

50% OFF

~~₹ 4,200/-~~
₹ 2,100/-

FREE SHIPPING

for Exam Help Call Us at: +91 8800734161

SSCPORTAL.IN

आप क्या प्राप्त करेंगे?

- माध्यमः हिन्दी
- 100% पाठयक्रम
- कुल 4 पुस्तिकायें, 900 से अधिक पृष्ठ
- 2,500 से अधिक वस्तुनिष्ठ प्रश्न (MCQ)
- 8 Year Solved Papers (PDF Copy)
- Five Practice Papers (PDF Copy)
- हमारे विशेषज्ञों द्वारा मार्गदर्शन और सहायता

Price of the Kit:

~~Rs. 4,200~~

Rs. 2,100/-

(Limited time Offer)

Buy Online

VISA Maestro MasterCard RuPay

Net Banking

Order Online (100% Safe)

Click here for Other Payment Options (Cash/NEFT/etc)

FOR MORE DETAILS CLICK HERE

50% OFF

Downloaded From : http://sscportal.in/

Correct Answer: 288 W

QID : 632 -

For the circuit shown what is the voltage V if the source voltage is reduced by 50%?

नीचे दिये परिपथ के लिए स्रोत वोल्टेज को 50% कम करने पर वोल्टेज v कितनी होगी?

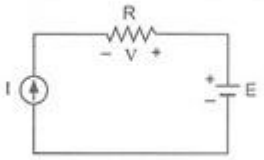

Options:

1) IR + E

2) E – IR

3) 2IR – (E/2)

4) (E/2) – IR

Correct Answer: (E/2) – IR

QID : 633 -

लौहे पर बंधी कुंडली धारा वहन करती है और रिंग में फ्लक्स स्थापित करती है। यदि रिंग के अनुप्रस्थ खंड का क्षेत्रफल दोगुना कर दिया जाए तो कोर में फ्लक्स घनत्व _____ होगा।

Options:

1) पिछले मान का दोगुना होगा।

2) पिछले मान का आधा होगा।

3) पिछले मान के समान होगा।

4) पूर्वानुमान संभव नहीं है।

Correct Answer: पिछले मान का आधा होगा।

QID : 634 -

एक कच्चे इस्पात की विदयुतचुंबक का वायु अंतराल 0.3 सेमी है। वायु अंतराल में 0.7 Wb/m2 अभिवाह घनत्व को पैदा करने के लिए एम्पियर-टर्न्स की गणना कीजिये ।

Options:

1) 2100 AT

2) 1671 AT

3) 1447 AT

4) 167 AT

Correct Answer: 1671 AT

Downloaded From : http://sscportal.in/ Courtesy : SSC

Downloaded From : http://sscportal.in/

QID : 635 -
चुंबकीय परिपथ में वायु अंतराल समान्यत: _____ के लिए रखा जाता है।

Options:
1) संतृप्त रूकावट

2) एमएमएफ़ में वृद्धि

3) अभिवाह में वृद्धि

4) प्रेरित में वृद्धि

Correct Answer: संतृप्त रूकावट

QID : 636 -
निम्नलिखित में से कौन सा कथन सही है?

Options:
1) उत्तेजित कुंडली के भीतर चुंबकीय अभिवाह, बाहरी सतह के समान होता है।

2) उत्तेजित कुंडली में चुंबकीय अभिवाह शून्य होता है।

3) उत्तेजित कुंडली के भीतर चुंबकीय अभिवाह, बाहरी सतह से अधिक होता है।

4) उत्तेजित कुंडली के भीतर चुंबकीय अभिवाह, बाहरी सतह से कम होता है।

Correct Answer: उत्तेजित कुंडली के भीतर चुंबकीय अभिवाह, बाहरी सतह के समान होता है।

QID : 637 -
निम्नलिखित कथन पर विचार कीजिये।

धारा वहन करने वाले दो स्थैतिक समांतर तारों के मध्य बल प्रति इकाई लंबाई:—

A. तारों के बीच की दूरी के व्युत्क्रमानुपाती होता है।

B. प्रत्येक धारा के परिमाण का समानुपाती होता है।

C. न्यूटन के तीसरे नियम का पालन करता है।

इनमें से _____

Options:
1) A और B सही हैं।

2) B और C सही हैं।

3) A और C सही हैं।

4) A, B और C सही हैं।

Correct Answer: A, B और C सही हैं।

QID : 638 -
किसी चुंबकीय परिपथ में निश्चित मात्रा के फ्लक्स को उत्पन्न करने के लिए 800 AT की आवश्यकता होती है। यदि उत्तेजन कुंडली में 100 टर्न्स और 5 ओहम प्रतिरोध हो, तो उत्तेजन कुंडली में आरोपित वोल्टता (वोल्टेज), _____ होगी।

Options:
1) 60 V

2) 40 V

Downloaded From : http://sscportal.in/ Courtesy : SSC

Downloaded From : http://sscportal.in/

3) 80 V

4) 8 V

Correct Answer: 40 V

QID : 639 -

वैदयुत चुंबकीय प्रेरण के फैराडे नियम के अनुसार, एक चालक में ई.एम.एफ. प्रेरित होती है जब वह _____।

Options:

1) चुंबकीय क्षेत्र में होता है।

2) चुंबकीय क्षेत्र के लम्बवत होता है।

3) चुंबकीय अभिवाह को काटता है।

4) चुंबकीय क्षेत्र की दिशा के समांतर गति करता है।

Correct Answer: चुंबकीय अभिवाह को काटता है।

QID : 640 -

"सभी प्रकार के वैद्युतचुंबकीय प्रेरण के मामलों में, प्रेरित वोल्टेज, संवृत परिपथ में धारा को इस प्रकार दिशा में प्रवाहित करती है कि धारा द्वारा उत्पादित चुंबकीय क्षेत्र, धारा के उत्पादन के लिए होने वाले परिवर्तन का विरोध करती है" यह मौलिक कथन _____ है।

Options:

1) लेंज का नियम

2) चुम्बकीय प्रेरण का फैराडे का नियम

3) प्रेरण का फ्लेमिंग नियम

4) एम्पियर का नियम

Correct Answer: लेंज का नियम

QID : 641 -

एक 500 kVA ट्रान्सफॉर्मर का सतत क्षय 500W है और पूर्ण लोड पर कॉपर क्षय 2000 W है। तो किस भार (लोड) पर, दक्षता अधिकतम होगी?

Options:

1) 250 KVA

2) 500 kVA

3) 1000 kVA

4) 125 kVA

Correct Answer: 250 KVA

QID : 642 -

ट्रान्सफॉर्मर की पूर्ण दिवस दक्षता, मुख्यत : _____ पर निर्भर करती है।

Options:

1) इसके तांबा क्षय

2) भार की राशि

Downloaded From : http://sscportal.in/ Courtesy : SSC

Downloaded From : http://sscportal.in/

3) भार की अवधि

4) भार की राशि और अवधि दोनों

Correct Answer: भार की राशि और अवधि दोनों

QID : 643 -
पावर ट्रान्सफॉर्मर में, _____ ब्रीथर प्रदान किया जाता है।

Options:
1) ट्रान्सफॉर्मर तेल को छानने के लिए

2) वायु में नमी के प्रवेश को रोकने के लिए

3) प्रशीतन तेल में ऑक्सिजन प्रदान करने के लिए

4) प्रशीतन प्रभाव को बढ़ाने हेतु ताजी हवा प्रदान करने के लिए

Correct Answer: वायु में नमी के प्रवेश को रोकने के लिए

QID : 644 -
तुल्यकालिक मशीन के स्टेटर कोर _____ लेमिनेशन से बनी होती है।

Options:
1) जंगरोधी इस्पात

2) सिलिकन इस्पात

3) ढलवां लोहा

4) ढलवां इस्पात

Correct Answer: सिलिकन इस्पात

QID : 645 -
संचारण लाइन संचालक में झोल (सेग), गर्मी में _____।

Options:
1) सर्दी से कम होता है।

2) सर्दी से अधिक होता है।

3) सर्दी के समान होता है।

4) इनमें से कोई नहीं ।

Correct Answer: सर्दी से अधिक होता है।

QID : 646 -
3-फेज तुल्यकालिक मशीन में नियोजित स्लिप रिंग _____ के लिए विदयुतरोधी होता है।

Options:
1) आउटपुट मूल्यांकित वोल्टेज

2) निम्न वोल्टेज

3) अति निम्न वोल्टेज

4) अति उच्च वोल्टेज

Correct Answer: निम्न वोल्टेज

QID : 647 -
रैखिक वैद्युतचुंबकीय परिपथ के लिए, निम्नलिखित में से कौन सा कथन सत्य है?

Downloaded From : http://sscportal.in/ Courtesy : SSC

Downloaded From : http://sscportal.in/

Options:

1) क्षेत्र ऊर्जा, सह ऊर्जा के बराबर होती है।

2) क्षेत्र ऊर्जा, सह ऊर्जा से अधिक होती है।

3) क्षेत्र ऊर्जा, सह ऊर्जा से कम होती है।

4) सह ऊर्जा शून्य होती है।

Correct Answer: क्षेत्र ऊर्जा, सह ऊर्जा के बराबर होती है।

QID : 648 -

एक लघुपथित आयताकार कुंडली गुरुत्व के अंतर्गत विफल हो जाती हैं जहां कुंडली लम्बवत तल में हो और बल की क्षैतिज चुंबकीय रेखाओं को लम्बवत काट रही हो। इसका त्वरण _____ होगा।

Options:

1) शून्य

2) बढ़ता हुआ

3) घटता हुआ

4) अचर

Correct Answer: अचर

QID : 649 -

घूर्णन मशीनों में अवरोध बलाघूर्ण उपस्थित होता है, जब _____

Options:

1)वायु अंतराल एकसमान नहीं होता है।

2)स्टेटर एमएमएफ़ में दर्शित अवरोध परिवर्तित होता है।

3)रोटर एमएमएफ़ में दर्शित अवरोध परिवर्तित होता है।

4)वर्किंग एमएमएफ़ में दर्शित अवरोध परिवर्तित होता है।

Correct Answer: वर्किंग एमएमएफ़ में दर्शित अवरोध परिवर्तित होता है।

QID : 650 -

डी.सी. मोटर में, वायुघर्षण क्षय _____ के समानुपाती होता है।

Options:

1) आपूर्तित वोल्टेज

2) आपूर्तित वोल्टेज का वर्ग

3) अभिवाह घनत्व का वर्ग

4) आर्मेचर गति का वर्ग

Correct Answer: आर्मेचर गति का वर्ग

QID : 651 -

समान्यत: विदयुत मशीन में नो-लोड क्षय, _____ के समतुल्य परिपथ द्वारा प्रदर्शित किया जाता है।

Options:

1) निम्न मान के साथ समानांतर प्रतिरोध

2) निम्न मान के साथ श्रेणी प्रतिरोध

3) उच्च मान के साथ समानांतर प्रतिरोध

4) उच्च मान के साथ श्रेणी प्रतिरोध

Downloaded From : http://sscportal.in/ Courtesy : SSC

Downloaded From : http://sscportal.in/

Correct Answer: निम्न मान के साथ समानांतर प्रतिरोध

QID : 652 -
रिकॉर्डर में शून्य-दमन _____ निरूपित करता है।

Options:
1) शून्य के अतिरिक्त अन्य बिन्दु के साथ रिकॉर्डिंग सिग्नल

2) स्थैतिक घटकों को हटाना ताकि शेष सिग्नल को अधिक विस्तार के साथ प्रदर्शित किया जा सके

3) क्षणिक प्रतिक्रिया को उन्नत करने के लिए जड़त्व रहित घटकों को प्रदान करना

4) शून्य त्रुटि के लिए रिकोर्डर को डिजाइन करना

Correct Answer: स्थैतिक घटकों को हटाना ताकि शेष सिग्नल को अधिक विस्तार के साथ प्रदर्शित किया जा सके

QID : 653 -
रिक्त (नल) प्रकार के रिकॉर्डर, _____ रिकॉर्डर होते हैं।

Options:
1) पोटेन्शियोमेट्रिक

2) सेतु (ब्रिज)

3) एल.वी.डी.टी.

4) विकल्पों में से कोई भी।

Correct Answer: विकल्पों में से कोई भी।

QID : 654 -
चुंबकीय टेप में रिक्ति _____ प्रदान की जाती है।

Options:
1) टेप के प्रारम्भ में

2) टेप के मध्य में

3) टेप के अंत में

4) टेप के आरंभ और अंत में ।

Correct Answer: टेप के आरंभ और अंत में ।

QID : 655 -
यदि धौंकनी (बेलौस) के अवयवों की संख्या दोगुनी और मोटाई आधी कर दी जाए, तो समान आरोपित दाब के लिए अवयवों का विस्थापन _____ होगा।

Options:
1) 16 गुना

2) 4 गुना

3) समान

4) एक-चौथाई

Correct Answer: 16 गुना

QID : 656 -
द्रव का कुल प्रवाह मापने मे मीटर मापन का प्रयोग _____ में होता है।

Options:
1) संयंत्र मीटर

Downloaded From : http://sscportal.in/ Courtesy : SSC

Downloaded From : http://sscportal.in/

2) चर क्षेत्र मीटर

3) वर्ग मूल निस्सारित्र

4) इनमें से कोई नहीं

Correct Answer: संयंत्र मीटर

QID : 657 -

स्वत: जनित प्रकार पारक्रमित्र, _____ पारक्रमित्र होते हैं।

Options:

1) सक्रिय

2) निष्क्रिय

3) द्वितयक

4) व्युत्क्रम

Correct Answer: सक्रिय

QID : 658 -

मापित (मेजर्ड) को पल्स में परिवर्तित करने वाला पारक्रमित्र (ट्रांसड्यूसर), _____ पारक्रमित्र (ट्रांसड्यूसर) कहलाता है।

Options:

1) सक्रिय

2) एनालॉग

3) डिजिटल

4) पल्स

Correct Answer: डिजिटल

QID : 659 -

पात्र (पोट) प्रतिरोध का उच्च मान, _____ की ओर अग्रेषित होता है।

Options:

1)निम्न संवेदनशीलता

2)उच्च संवेदनशीलता

3)निम्न अरेखीय

4)निम्न त्रुटि

Correct Answer: उच्च संवेदनशीलता

QID : 660 -

तार बंधित विकृति गेज में, विकृत परिस्थिति के अंतर्गत प्रतिरोध में परिवर्तन मुख्यत: _____ के कारण होता है।

Options:

1) तार के व्यास में परिवर्तन

2) तार की लंबाई में परिवर्तन

3) तार की लंबाई और व्यास दोनों में परिवर्तन

4) प्रतिरोधकता में परिवर्तन

Correct Answer: तार की लंबाई और व्यास दोनों में परिवर्तन

QID : 661 -

निम्नलिखित में से परंपरागत विकृति गेज की तुलना में अर्धचालक गेज का क्या लाभ नहीं है?

Downloaded From : http://sscportal.in/ Courtesy : SSC

Downloaded From : http://sscportal.in/

Options:

1) उत्कृष्ट शैथिल्य (हिस्टरेसिस) अभिलक्षण

2) तापमान परिवर्तन में न्यूनतम संवेदनशीलता

3) उच्च श्रम जीवनकाल

4) छोटा आकार

Correct Answer: तापमान परिवर्तन में न्यूनतम संवेदनशीलता

QID : 662 -

वाष्प संपीड़न प्रणाली में, निम्नलिखित में से कौन सी इकाई नमी की उपस्थिती से प्रतिकूल रूप से प्रभावित होती है?

Options:

1) वाष्पक

2) प्रसारण वाल्व

3) संपीडक

4) संघनक

Correct Answer: प्रसारण वाल्व

QID : 663 -

डीजल लोकोमोटिव _____ हार्सपॉवर की सीमा (रेंज) में होता है।

Options:

1) 100 – 500

2) 1500 – 2500

3) 3000 – 4500

4) 4500 – 5000

Correct Answer: 1500 – 2500

QID : 664 -

अन्य कर्षण प्रणाली की तुलना में विदयुत कर्षण का क्या लाभ है?

Options:

1) उच्च त्वरण और ब्रेकिंग न्यूनतक

2) स्वच्छतम प्रणाली और भूमिगत व ट्यूब रेलवे के लिए आदर्शत: उपयुक्त

3) बेहतर गति नियंत्रण

4) सभी विकल्प सही हैं।

Correct Answer: सभी विकल्प सही हैं।

QID : 665 -

चालक सामाग्री को गरम करने की उपयुक्त विधि, _____ है।

Options:

1) प्रेरित ऊष्मा

2) अप्रत्यक्ष चाप ऊष्मा

Downloaded From : http://sscportal.in/ Courtesy : SSC

Downloaded From : http://sscportal.in/

3) भंवर धारा ऊष्मा

4) विकिरण ऊष्मा

Correct Answer: प्रेरित ऊष्मा

QID : 666 -
विदयुत स्पर्शाघात (शॉक) का अधिकतम खतरा _____ होता है।

Options:
1) वेल्डिंग से पूर्व

2) वेल्डिंग के दौरान

3) होल्डर में इलेक्ट्रोड डालने के दौरान

4) वेल्डिंग पश्चात

Correct Answer: होल्डर में इलेक्ट्रोड डालने के दौरान

QID : 667 -
_____ , हेलोजन लेंप का लाभ है।

Options:
1) लैंप की विमाओं में कमी

2) बेहतर रंग प्रतिपादन और लंबा जीवनकाल (लगभग 2000 घंटे)

3) अधिक दैदीप्यमान दक्षता के साथ उच्च प्रचालन तापमान

4) सभी विकल्प सही हैं।

Correct Answer: सभी विकल्प सही हैं।

QID : 668 -
संयंत्र का वार्षिक अवक्षय, _____ के संबंध में संयंत्र की अर्जन क्षमता के समानुपाती होता है।

Options:
1) तुल्यकालिक मोटर

2) डी.सी मोटर

3) प्रेरण मोटर

4) इनमें से कोई नहीं

Correct Answer: प्रेरण मोटर

QID : 669 -
घरेलू लोड के लिए लोड घटक _____ लिया जाता है।

Options:
1) लगभग 85%

2) 50 – 60%

3) 25 – 50%

4) 10 – 15%

Correct Answer: 10 – 15%

QID : 670 -
किसी औद्योगिक उपभोक्ता का लोड प्रतिरूप 12 घंटे के लिए 0.8 लेग 2000 kW और 12 घंटे के लिए इकाई शक्ति घटक 1000 kW है। लोड घटक क्या होगा?

Downloaded From : http://sscportal.in/ Courtesy : SSC

SSC CHSL (10+2) Printed Study Kit

- 100% CHSL Exam Syllabus Covered
- 5 Books, 1000+ Pages
- 4500+ MCQs
- Solved Papers & Mock Tests (PDF Copy)
- 1 Year Current Affairs (PDF Copy)

50% OFF

~~₹ 4,000/-~~

₹ 1,999/-

FREE SHIPPING

for Exam Help Call Us at: +91 8800734161

SSCPORTAL.IN

What you will get:

- 100% CHSL Exam Syllabus Covered
- 5 Booklets
- More Than 1000+ Pages
- 4500+ MCQs
- Previous Solved Papers
- Current Affairs for Exam
- Guidance & Support from Our Experts

Price of the Kit:

~~Rs. 4,000~~

Rs. 1,999/-

(Limited time Offer)

Buy Online

VISA Maestro MasterCard RuPay

Net Banking

Order Online (100% Safe)

Click here for Other Payment Options (Cash/NEFT/etc)

FOR MORE DETAILS CLICK HERE

50% OFF

Downloaded From : http://sscportal.in/

Options:

1) 0.5

2) 0.75

3) 0.6

4) 2

Correct Answer: 0.6

QID : 671 -

विभेद कारक (डाइवर्सिटी फैक्टर _____ का अनुपात होता है।

Options:

1) उपभोक्ताओं की अधिकतम मांग का योग/ सिस्टम की अधिकतम मांग

2) उपभोक्ताओं की अधिकतम मांग/ औसत मांग

3) सभी उपभोक्ताओं की मांग/ औसत मांग

4) इनमें से कोई नहीं

Correct Answer: उपभोक्ताओं की अधिकतम मांग का योग/ सिस्टम की अधिकतम मांग

QID : 672 -

विभेद कारक x अधिकतम मांग, _____ होता है।

Options:

1) औसत मांग

2) उपभोक्ता की अधिकतम मांग का योग

3) संस्थापित क्षमता

4) उत्पादित क्षमता

Correct Answer: उपभोक्ता की अधिकतम मांग का योग

QID : 673 -

आईएसआई की सिफ़ारिशों के अनुसार एक उप-परिपथ में लाइट, फेन और सॉकेट के अधिकतम _____ पॉइंट्स जोड़े जा सकते हैं।

Options:

1) 8

2) 10

3) 15

4) 20

Correct Answer: 10

QID : 674 -

कार्यशाला प्रकाशमय करने के लिए निम्नलिखित में से कौन सी वायरिंग श्रेयस्कर है?

Downloaded From : http://sscportal.in/ Courtesy : SSC

Downloaded From : http://sscportal.in/

Options:

1) केसिंग-केपिंग वायरिंग

2) बेटन वायरिंग

3) गुप्त कोण्ड्युइट वायरिंग

4) सतह कोण्डुइट वायरिंग

Correct Answer: गुप्त कोण्ड्युइट वायरिंग

QID : 675 -

फ्यूज नियम के अनुसार, धारा वहन क्षमता, _____ के अनुसार परिवर्तित होती है।

Options:

1) व्यास

2) (व्यास)1.5

3) (व्यास)1/2

4) 1/(व्यास)

Correct Answer: (व्यास)1.5

QID : 676 -

उपयोग की जाने वाली लूप अर्थ वायर का आकार _____ से कम नहीं होना चाहिए।

Options:

1) 8 SWG

2) 10 SWG

3) 20 SWG

4) 14 SWG (2.9 mm2) अथवा उप-परिपथ वायर Q का आधा

Correct Answer: 14 SWG (2.9 mm2) अथवा उप-परिपथ वायर Q का आधा

QID : 677 -

3-पिन प्लग में तीसरा पिन प्रदान किया जाता है जो _____

Options:

1) भूमिगत कनेक्सन प्रदान करता है।

2) आवश्यकता होने पर, 3-फेज आपूर्ति प्रदान करता है।

3) आवश्यकता होने पर, अतिरिक्त फेज प्रदान करता है।

4) प्लग के सॉकेट के भीतर परिवर्तित होने से रोकता है।

Correct Answer: भूमिगत कनेक्सन प्रदान करता है।

QID : 678 -

विदयुत परिपथ में, निम्नलिखित में से कौन सक्रिय उपकरण के रूप में उपयोग होता है?

Options:

1) ट्रान्सफॉर्मर

2) विदयुत हीटर

3) एससीआर

4) लाउडस्पीकर

Correct Answer: एससीआर

Downloaded From : http://sscportal.in/ Courtesy : SSC

Downloaded From : http://sscportal.in/

QID : 679 -
उपकरण जिसकी विशेषताएँ आदर्श वोल्टेज स्रोत के अत्यधिक निकट है, _____ है।

Options:
1) निर्वात डायोड

2) जेनर डायोड

3) ट्रान्जिस्टर

4) एफ़ईटी

Correct Answer: जेनर डायोड

QID : 680 -
ऊष्मापान संबंधी उत्सर्जन के लिए _____

Options:
1) उच्च कार्य फंक्शन वाली सामाग्री श्रेयस्कर है।

2) निम्न कार्य फंक्शन वाली सामग्री श्रेयस्कर है।

3) सामग्री का कार्य फंक्शन महत्वपूर्ण नहीं है।

4) इनमें से कोई नहीं

Correct Answer: निम्न कार्य फंक्शन वाली सामग्री श्रेयस्कर है।

QID : 681 -
एक फोटोसेल, 1 मी दूर छोटे चमकीले स्रोत से ज्योतिर्मय होता है। जब समान स्रोत को 2 मीटर दूर कर दिया जाता हो, तो फोटोकैथोड द्वारा उत्सर्जित इलेक्ट्रॉन्स _____

Options:
1) प्रत्येक, पूर्व ऊर्जा का एक चौथाई वहन करते हैं।

2) प्रत्येक, पूर्व क्षण एक चौथाई वहन करते हैं।

3) अधिक होने के कारण आधी वहन करते हैं।

4) अधिक होने के कारण एक-चौथाई वहन करते हैं।

Correct Answer: अधिक होने के कारण एक-चौथाई वहन करते हैं।

QID : 682 -
निर्वात टेटरोड़ में, द्वितयिक उत्सर्जन, _____ के उत्सर्जन के कारण होता है।

Options:
1) ऊष्मीय ऊर्जा के कारण तन्तु से इलेक्ट्रॉन्स

2) कैथोड से उच्च वेग के इलेक्ट्रॉन्स

3) कैथोड से उत्सर्जित तेज गति के इलेक्ट्रॉन्स की गोलाबारी से प्लेट के इलेक्ट्रॉन्स

4) कैथोड के अणुओं के दूसरे कक्ष से संबन्धित इलेक्ट्रॉन्स

Correct Answer: कैथोड से उत्सर्जित तेज गति के इलेक्ट्रॉन्स की गोलाबारी से प्लेट के इलेक्ट्रॉन्स

QID : 683 -
निम्नलिखित में से कौन सा परिपथ, अधिकतर एम्प्लीफायर के रूप में उपयोग होता है?

Options:
1) उच्च वोल्टेज गेन के कारण कॉमन बेस परिपथ

2) उच्च वोल्टेज और धारा गेन के कारण कॉमन एमिटर परिपथ

Downloaded From : http://sscportal.in/ Courtesy : SSC

Downloaded From : http://sscportal.in/

3) उच्च गेन के कारण कॉमन कलेक्टर परिपथ

4) अत्यधिक निम्न इनपुट प्रतिरोध के कारण कॉमन एमिटर परिपथ का उपयोग कम होता है।

Correct Answer: उच्च वोल्टेज और धारा गेन के कारण कॉमन एमिटर परिपथ

QID : 684 -
डी.सी. कम्पाउण्ड मोटर में, 4-पॉइंट स्टार्टर _____ प्रदान करता है।

Options:
1) फील्ड धारा को कम करना

2) फील्ड धारा को बढ़ाना

3) फील्ड धारा परिवर्तित होने पर भी 'होल्ड ऑन' कुंडली में प्रवाहित धारा को प्रभावित नहीं होने देना

4) इनमें से कोई नहीं।

Correct Answer: फील्ड धारा परिवर्तित होने पर भी 'होल्ड ऑन' कुंडली में प्रवाहित धारा को प्रभावित नहीं होने देना

QID : 685 -
मोटर नियंत्रक का सरलतम प्रकार _____ है।

Options:
1)रिले

2)टॉगल स्विच

3)ड्रम स्विच

4)चुंबकीय स्विच

Correct Answer: टॉगल स्विच

QID : 686 -
धारा नियंत्रक (रेओस्टेटिक) और पुनर्योजी (रीजनरेटिव) ब्रैकिंग प्रणाली की तुलना में प्लगन (प्लगिंग) _____ ब्रेकिंग बलाघूर्ण प्रदान करता है।

Options:
1) नगण्य

2) कम

3) अधिकतम

4) इनमें से कोई नहीं

Correct Answer: अधिकतम

QID : 687 -
गतिशील (डाइनेमिक) ब्रेकिंग अत्यधिक प्रभावी होती है, यदि डी.सी. मोटर _____

Options:
1) श्रेणी उत्तेजित होती है।

2) शंट उत्तेजित हो।

3) अलग से उत्तेजित हो।

4) संचयी यौगिक उत्तेजित हो।

Correct Answer: अलग से उत्तेजित हो।

QID : 688 -
डी.सी. मोटर के संबंध में, पुनर्योजी ब्रेकिंग तब नियोजित की जाती है, जब भार (लोड) _____

Downloaded From : http://sscportal.in/ Courtesy : SSC

Downloaded From : http://sscportal.in/

Options:

1) में जीर्णोद्धार (ओवर्होलिंग) विशेषता हो।

2) चर हो।

3) अचर हो।

4) भी ब्रेकिंग बल के रूप में कार्य करे।

Correct Answer: में जीर्णोद्धार (ओवर्होलिंग) विशेषता हो।

QID : 689 -

डी.सी. शंट मशीन में, चर क्षय, _____ होता है।

Options:

1) लौह क्षय

2) शंट क्षेत्र क्षय

3) आर्मेचर तांबा क्षय

4) घर्षण और वायुघर्षण क्षय

Correct Answer: आर्मेचर तांबा क्षय

QID : 690 -

तुल्यकालिक जनित्र में, परंपरागत वाईंडिंग घूर्णी की जगह विभाजक वाईंडिंग घूर्णी, _____ के कारण श्रेयस्कर होता है।

Options:

1) उच्च दक्षता

2) स्थायी-अवस्था की नियमितता में वृद्धि

3) उच्च लघु पठन अनुपात

4) बेहतर अवमंदन

Correct Answer: स्थायी-अवस्था की नियमितता में वृद्धि

QID : 691 -

किसी परिवर्तक की स्टेटर वाईंडिंग समान्यत: वोल्टेज तरंगफॉर्म के _____ अनुकंपी घटक को कम करने के लिए स्टार में जोड़ा जाता है।

Options:

1) तीसरे

2) पांचवे

3) सातवें

4) इनमें से कोई नहीं

Correct Answer:तीसरे

QID : 692 -

तुल्यकालिक जनित्र द्वारा निरूपति रिएक्टिव शक्ति को कैसे नियंत्रित किया जाता है?

Options:

1) प्राइम मूवर इनपुट को बदल कर

2) उत्तेजन को बदलकर

3) घूर्णन की दिशा को बदलकर

4) प्राइम मूवर की गति को बदलकर

Correct Answer: उत्तेजन को बदलकर

Downloaded From : http://sscportal.in/ Courtesy : SSC

Downloaded From : http://sscportal.in/

Candidate Answer: उत्तेजन को बदलकर

QID : 693 -
तुल्यकालिक मशीन में आर्मेचर रिएक्शन प्रभाव _____ पर निर्भर करता है।

Options:
1) भार (लोड) धारा

2) भार (लोड) का शक्ति घटक

3) मशीन की गति

4) भार (लोड) धारा और भार (लोड) का शक्ति घटक

Correct Answer: भार (लोड) धारा और भार (लोड) का शक्ति घटक

QID : 694 -
तुल्यकालिक जनित्र, निर्धारित (रेटिड) धारा पर शून्य शक्ति कारक (लेगिंग) लोड को आपूर्ति देता है। आर्मेचर रिएक्शन, _____ होता है।

Options:
1) चुंबकन

2) विचुंबकन

3) क्रॉस चुंबकन

4) अप्रभावी

Correct Answer: विचुंबकन

QID : 695 -
तुल्यकालिक मोटर, तुल्यकालन का अनुसरण करने में _____ के कारण असफल हो सकता है।

Options:
1) अत्याधिक भार (लोड)

2) निम्न उत्तेजन

3) उच्च घर्षण

4) विकल्पों में सी कोई भी

Correct Answer: विकल्पों में सी कोई भी

QID : 696 -
3-फेज शक्ति सिस्टम की मूल्यांकित वोल्टता (वोल्टेज), _____ से दी जाती है।

Options:
1) आर.एम.एस. फेज वोल्टता (वोल्टेज)

2) ऊँची प्रावस्था (पीक फेज) वोल्टता (वोल्टेज)

3) आर.एम.एस. लाइन टू लाइन वोल्टता (वोल्टेज)

4) पीक लाइन टू लाइन वोल्टता (वोल्टेज)

Correct Answer: आर.एम.एस. लाइन टू लाइन वोल्टता (वोल्टेज)

QID : 697 -
फीडर मुख्यत: _____ को ध्यान में रखते हुए डिजाइन किया गया है।

Options:
1) इसकी धारा वहन क्षमता

2) इसके वोल्टेज ड्रॉप

Downloaded From : http://sscportal.in/ Courtesy : SSC

Downloaded From : http://sscportal.in/

3) प्रचालन वोल्टेज

4) प्रचालन आवृति

Correct Answer: इसकी धारा वहन क्षमता

QID : 698 -
66 kV, _____ संचारण के लिए उपयुक्त होता है।

Options:
1) 30 कि.मी.

2) 60 कि.मी.

3) 120 कि.मी.

4) 200 कि.मी.

Correct Answer: 60 कि.मी.

QID : 699 -
तांबा की तुलना में एल्यूमिनियम का, निम्नलिखित में से किस गुण का मान अधिक होता है?

Options:
1) विदयुत प्रतिरोधकता

2) गलन बिन्दु

3) तापीय संचालकता

4) विशिष्ट गुरुत्व

Correct Answer: विदयुत प्रतिरोधकता

QID : 700 -
ए.सी.एस.आर. संचालक में _____ होते हैं।

Options:
1) सभी चालक, एल्यूमिनियम के बने

2) बाहरी चालक, एल्यूमिनियम के बने

3) आंतरिक चालक, एल्यूमिनियम के बने

4) कोई चालक एल्यूमिनियम का नहीं बना

Correct Answer: बाहरी चालक, एल्यूमिनियम के बने

Downloaded From : http://sscportal.in/ Courtesy : SSC

CGL EXAM

Combined Graduate Level Examination

SSC EXAMS
PRINTED STUDY NOTES

Study Material for SSC CGL (Tier-1) Examination	English	CLICK HERE
Study Kit for SSC CGL (Tier-2) Exam	English	CLICK HERE
Study Kit for SSC CHSL (10+2) Examination	English	CLICK HERE
Study Kit for SSC Stenographers (Grade 'C' & 'D')	English	CLICK HERE
Study Kit for Multitasking (Non-Technical) - MTS	English	CLICK HERE
Study Kit for SSC Constables (GD) Exam	English	CLICK HERE
Study Kit For SSC Sub-Inspectors in Delhi Police, CAPFs, CISF	English	CLICK HERE
Study Kit for SSC Junior Engineer Exam (Paper-1)	English	CLICK HERE
IAS EXAMS STUDY MATERIALS		
Study Kit for IAS (Pre) GENERAL STUDIES Paper-1 (GS)	English	CLICK HERE
Study Kit for IAS (Pre) CSAT Paper-2(Aptitude)	English	CLICK HERE
सामान्य अध्ययन (GS) प्रारंभिक परीक्षा (Pre) पेपर-1	हिन्दी	CLICK HERE
आई. ए. एस. (सी-सैट) प्रांरभिक परीक्षा पेपर -2	हिन्दी	CLICK HERE
Gist of NCERT Study Kit For UPSC Exams	English	CLICK HERE
यूपीएससी परीक्षा के लिए एनसीईआरटी अध्ययन सामग्री	हिन्दी	CLICK HERE